DIRECTION GÉNÉRALE DES FINANCES PUBLIQUES

CONCOURS EXTERNE DE CONTRÔLEUR DES FINANCES PUBLIQUES DE DEUXIÈME CLASSE

ANNÉE 2018

ÉPREUVE ÉCRITE D'ADMISSIBILITÉ N° 2

Durée : 3 heures - Coefficient : 3

Le candidat traitera le présent sujet correspondant à l'option formulée dans son dossier d'inscription :

- Composition sur un ou plusieurs sujets donnés et/ou cas pratiques d'éléments d'économie

---

Toute note inférieure à 5/20 est éliminatoire.

Recommandations importantes

Le candidat trouvera au verso la manière de servir la copie dédiée.

Sous peine d'annulation de sa copie, le candidat ne doit porter aucun signe distinctif (nom, prénom, signature, numéro de candidature, etc.) en dehors du volet rabattable d'en-tête.

Il devra obligatoirement se conformer aux directives données.

Liberté • Égalité • Fraternité
RÉPUBLIQUE FRANÇAISE

MINISTÈRE DE L'ACTION ET DES COMPTES PUBLICS

Tournez la page S.V.P.

Le candidat devra compléter l'intérieur du volet rabattable des informations demandées et se conformer aux instructions données

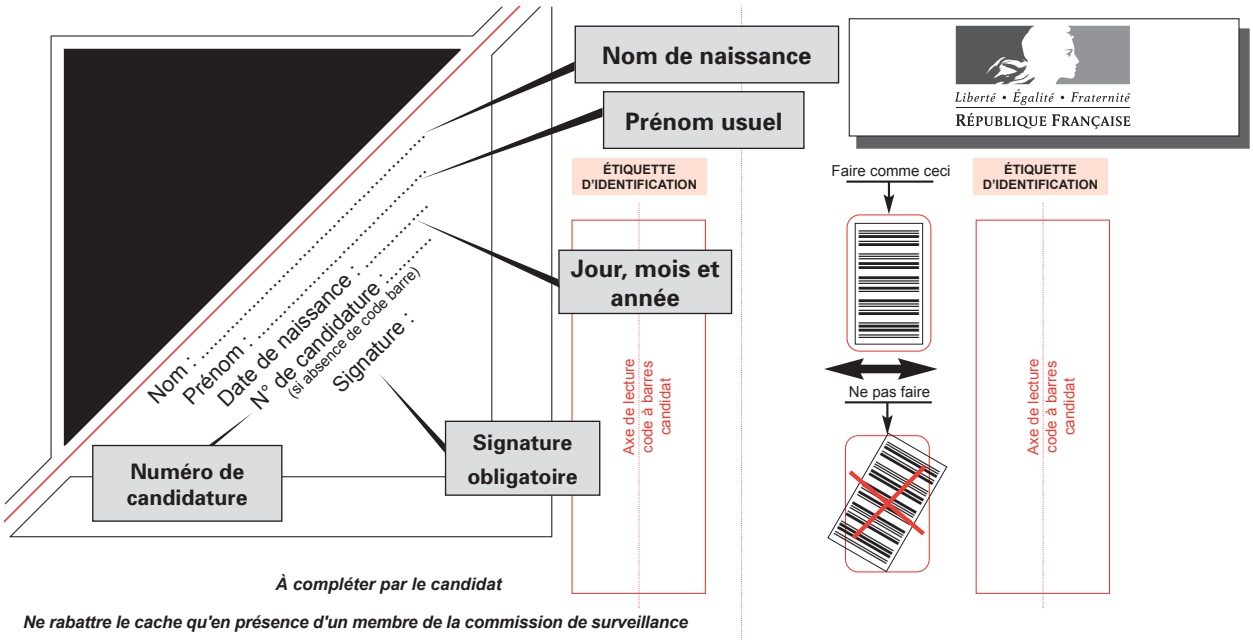

À compléter par le candidat

Ne rabattre le cache qu'en présence d'un membre de la commission de surveillance

Concours externe - interne - professionnel - ou examen professionnel [1]

[1] Rayer les mentions inutiles

Externe

Pour l'emploi de : **Contrôleur des Finances publiques**

Épreuve n° : **2**

Matière : **048 – Économie**

Date : **0 5 1 2 2 0 1 7**

Nombre d'intercalaires supplémentaires :

Préciser éventuellement le nombre d'intercalaires supplémentaires

À L'ATTENTION DU CANDIDAT

En dehors de la zone d'identification rabattable, les copies doivent être totalement anonymes et ne comporter aucun élément d'identification tel que nom, prénom, signature, paraphe, localisation, initiale, numéro, ou toute autre indication même fictive étrangère au traitement du sujet.

Il est demandé aux candidats d'écrire et de souligner si nécessaire au stylo bille, plume ou feutre, de couleur noire ou bleue uniquement. Une autre couleur pourrait être considérée comme un signe distinctif par le jury, auquel cas la note de zéro serait attribuée. De même, l'utilisation de crayon surligneur est interdite.

Les étiquettes d'identification codes à barres, destinées à permettre à l'administration d'identifier votre copie, ne doivent être détachées et collées dans les deux cadres prévus à cet effet qu'en présence d'un membre de la commission de surveillance.

Suivre les instructions données pour les étiquettes d'identification

NOTE / 20

,

RÉSERVÉ À L'ADMINISTRATION

À L'ATTENTION DU CORRECTEUR

Pour remplir ce document :

Utilisez un stylo ou une pointe feutre de couleur NOIRE ou BLEUE.

EXEMPLE DE MARQUAGE : Faire comme ceci — Ne pas faire

Pour porter votre note, cochez les gélules correspondantes.

Reportez la note dans les zones **NOTE / 20** et dans le cadre **A**

En cas d'erreur de codification dans le report des notes cochez la case **erreur** et reportez la note dans le cadre **B**.

Cadre A réservé à la notation		
20	19	18
17	16	15
14	13	12
11	10	09
08	07	06
05	04	03
02	01	00
Décimales		
,00	,25	,50	,75

Cadre B réservé à la notation rectificative		
20	19	18
17	16	15
14	13	12
11	10	09
08	07	06
05	04	03
02	01	00
Décimales		
,00	,25	,50	,75
Erreur		

NOTE / 20

,

EN AUCUN CAS, LE CANDIDAT NE FERMERA LE VOLET RABATTABLE AVANT D'Y AVOIR ÉTÉ AUTORISÉ PAR LA COMMISSION DE SURVEILLANCE

N°140 - IMPRIMERIE NATIONALE 2014 01 51061 PO - Juin 2014 - 145 112

DIRECTION GÉNÉRALE DES FINANCES PUBLIQUES

SUJET

ÉLÉMENTS D'ÉCONOMIE

Aucun document ou matériel n'est autorisé

Première partie : Analyse de documents

En vous appuyant sur le graphique n° 1, analysez en 15 lignes, la croissance annuelle des économies avancées et émergentes.

Graphique n° 1 :

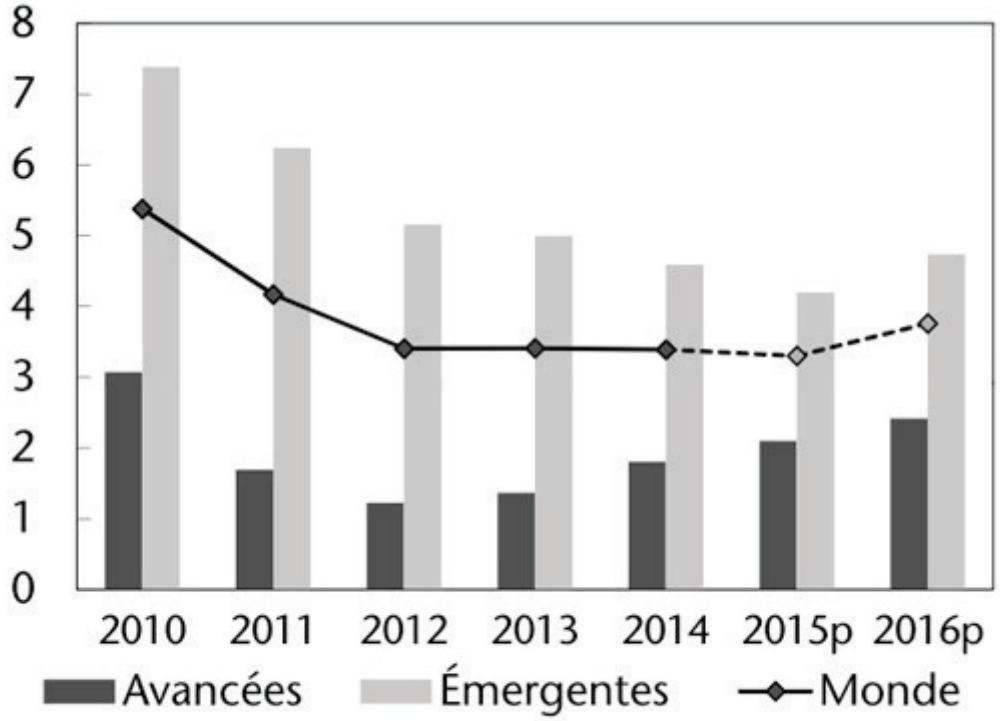

Source : FMI, *World Economic Outlook*, 2015

Tournez la page S.V.P.

À l'aide du graphique n° 2, analysez en 15 lignes, la croissance en volume du PIB et du commerce de biens et services au niveau mondial (en %).

Graphique n° 2 :

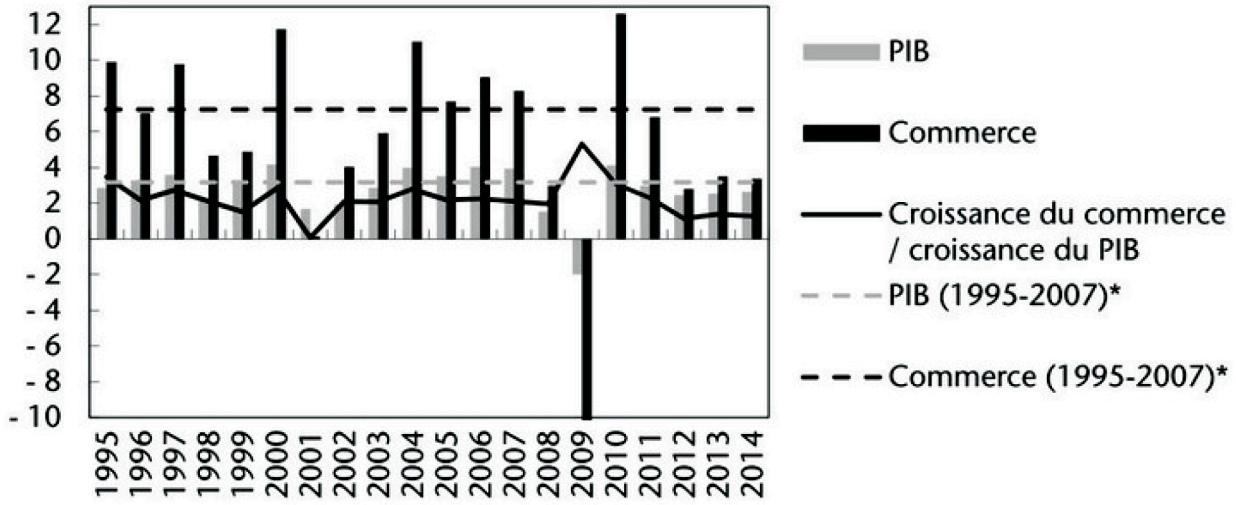

* Taux de croissance annuel moyen.

Source : FMI, World Economic Outlook, avril 2015

Deuxième partie : Questions de connaissance

Répondez brièvement aux questions suivantes (15 lignes maximum par question) :

Question n° 1 : Quelles sont les 5 conditions de la concurrence pure et parfaite ?

Question n° 2 : Expliquez comment la courbe de Lorenz et le coefficient de Gini permettent de mesurer les inégalités.

Troisième partie : Dissertation

Vous répondrez de façon structurée au sujet suivant : La redistribution est-elle toujours efficace en France ?

IMPRIMERIE NATIONALE – D'après documents fournis